5 公民分野の資料・図を読み取る

学習日　/

□**1** 右の資料は日本の出生率(人口1000人あたりの１年間の出生児数の割合)，死亡率(人口1000人あたりの１年間の死亡者数の割合)の推移を示したものである。次の文はこの資料から読み取ったことである。文の中の(　A　)～(　C　)に入るものとして最も適当なものをあとから１つずつ選び，記号で答えなさい。ただし，出生児数，死亡者数以外の理由による人口の変化は小さいので，考えないものとする。

〈福井〉

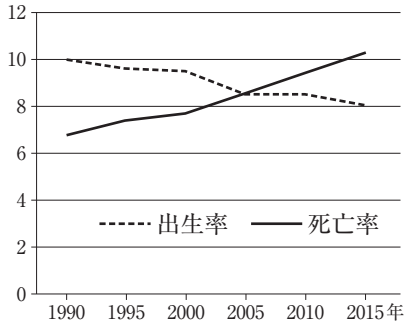

(「平成28年人口動態統計の年間推移」)

(　A　)年から2015年まで日本の(　B　)が(　C　)している。

ア　1990　　イ　2005　　ウ　合計特殊出生率　　エ　総人口　　オ　増加　　カ　減少

A[　　]　B[　　]　C[　　]

2 次の各問いに答えなさい。

〈大分・改〉

□(1)　資料１は，人の支配と法の支配を模式的に示したものである。【人の支配】と【法の支配】では，法の役割に違いがみられる。資料１を参考にして，【法の支配】において保障されることと制限されることを，それぞれ答えなさい。

資料１

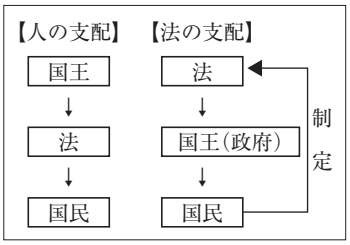

保障[　　]

制限[　　]

□(2)　資料２は，議院内閣制のしくみについて示したものである。次のア～エは，資料２中の□のいずれかにあてはまる語句である。資料２中の X にあてはまる語句として最も適当なものを１つ選び，記号で答えなさい。

ア　信任・不信任の決議

イ　連帯責任

ウ　任命・罷免

エ　解散の決定

資料２

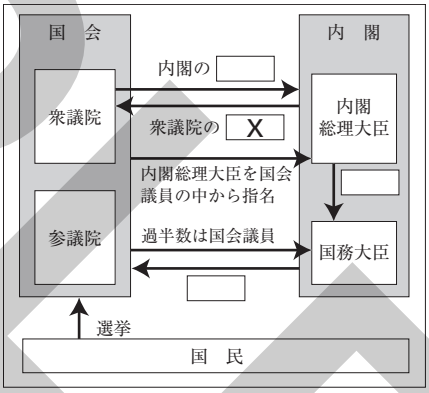

[　　]

□**3** ゆいさんは，図から，平成25年の参議院議員選挙には，日本国憲法が保障している基本的人権の一つに関わる課題があることを知った。その課題とは何か。議員一人あたりの有権者数と課題に関わる基本的人権にふれ，「格差」の語を用いて，簡潔に答えなさい。

〈栃木〉

[　　]

平成25年参議院議員選挙

選挙区	有権者数(万人)	定数
A	460	4
B	455	4
C	59	2
D	48	2

(総務省ホームページ)

□**4** 右の表は，ある年度の一般会計予算案の，衆議院，参議院それぞれの本会議における採決結果を示したものである。このような採決結果となった場合，この予算案は，どのような手続きを経て，どのように議決されるか，答えなさい。

〈山口〉

	衆議院	参議院
投票総数	476	234
賛成	328	110
反対	148	124

(注)予算案が審議された年度の衆議院の議員定数は480名であった。

[　　]

SAMPLE